نصف العدد الكامل

إذا قسمنا التفاحة إلى قسمين متساويين، فسنحصل على نصفين.



Bilde: Adobe Stock, Tim UR

Bilde: Adobe Stock, Tim UR

إذا وضعنا النصفين مع بعضهما فسنحصل على تفاحة كاملة.

واحد من إثنين هو النصف

إذا قسمت الدائرة إلى نصفين متساويين فالنصف يكتب هكذا $\frac{1}{2}$.

واحد من إثنين مثله مثل النصف.

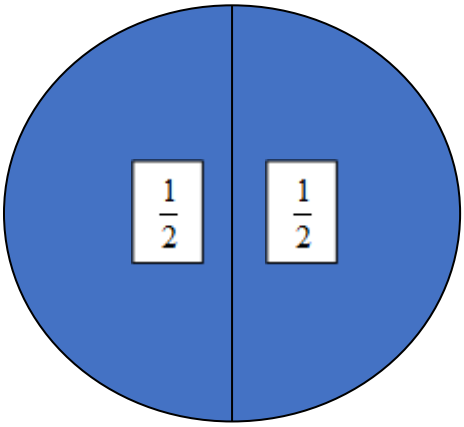

$$\frac{1}{2} + \frac{1}{2} = 1$$

أسئلة

1.ضع دائرة على المجموعة التي نصف ($\frac{1}{2}$) النجوم لونه أصفر.

2. ضع دائرة على المجموعة التي نصف ($\frac{1}{2}$)القلوب فيها لونه أحمر.



3. لون نصف الأشكال التالية.

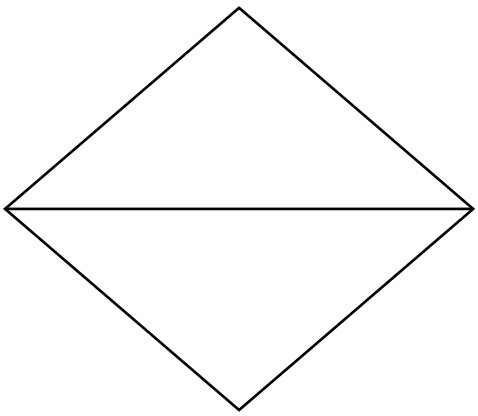

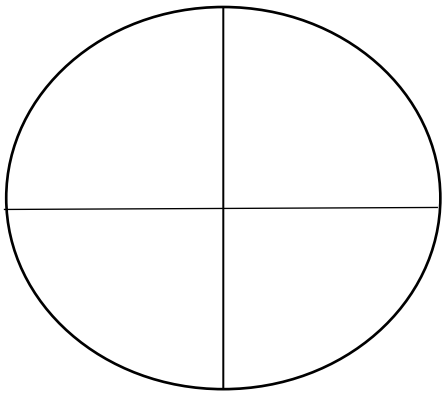



4. ضع دائرة على الشكل الذي نصفه ملون.



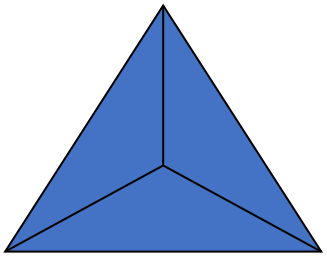



5. قسم الأشكال إلى نصفين ولون نصف كل شكل.



Illustrasjon: Adobe Stock, Larysa



Illustrasjon: Adobe Stock, gmagakis

القسمة تتكون من ثلاثة عناصر: المقسوم، المقسوم عليه وسطر القسمة.

المقسوم

$$\frac{1}{2}$$

سطر القسمة

المقسوم عليه

القسمة هي جزء من كل.

جزء من قطعة البيتزا



Illustrasjon: Adobe Stock, Roi and Roi

يعتمد حجم الجزء على المقسوم والمقسوم عليه. يوضح المقسوم مقدار المساحة التي لديك ، أو عدد الأجزاء التي تتسع لها. إذا قسمت بيتزا إلى ثماني قطع متساوية ، يصبح المقسوم عليه ثمانية. إذا أكلت إحدى القطع ، فقد أكلت $\frac{1}{8}$ من البيتزا. المقسوم يقول شيئا عن كم لديك. البيتزا الكاملة هنا هي $\frac{8}{8}$ وهي نفس الكلية.

6.ما هو الكسر إذا أكلت ثلاث قطع بيتزا من هذه البيتزا؟



Illustrasjon: Adobe Stock, Roi and Roi

7. اكتب كسر البطيخات الست.



Illustrasjon: Adobe Stock, jantima

8. اكتب نص حسابي يناسب إحدى الصورتين.



Illustrasjon: Adobe Stock, blueringmedia